3年生の課題（じゅぎょう用答え集）　～令和3年度～

○丸つけをして、まちがえたところは午後の自学自習タイムの時などにもう一度チャレンジしてみましょう。

3年　　組　　番（　　）

9月2日(木)　答え

国語

20頁　国語辞典の使い方①

(1)(3)とら (1)いぬ (4)ねこ (5)へび (2)さる

(2)① (3)あか (1)あい (2)あお

② (2)タイ (1)たい (3)たこ

③ (1)さか (3)さかな (2)さかさ

(3)①きん ②びん ③かんびょう

(4)① (1)シーソー (3)シール (2)しいたけ

② (1)ユーモア (2)ゆうやけ (3)ゆうれい

③ (3)コーン (1)こうら (2)こおり

(5)①はっか ②びよういん ③いしや

92頁　かえるのぴょん

一. かえるのぴょん　とぶのがだいすき

二. ぴょん

三. とぶ (こと)

四. ①かあさん・とうさん

②じどうしゃ・しんかんせん

③ (とんでる) ひこうき・おひさま

④きょう・あした

五. 例 東京タワー、にじ

六. 略

算数

理科

しぜんのかんさつ(1) P
しぜんのかんさつ(2) P41

P40 1 (1)

① デジタルカメラ
② 筆記用具
③ きろくカード
④ あみ
⑤ プラスチックケース
⑥ 虫めがね　⑦ さしたり
⑧ 動物　⑨ かぶれる
⑩ 手

(①、②、③のじゅん番は自由)

(2) ① 虫めがね　② 形
③ 色　④ 大きさ
⑤ 思ったこと

(②、③、④のじゅん番は自由)

2 (1) カマキリ
(2) 6本
(3) 5月25日
(4) 小さい虫
(5) カマのような形
(6) てきから身を守るため

P41

1 ① ㋐　② ㋑　③ ㋑　④ ㋑

2 (1) ① ○　② ×
③ ×　④ ○
(2) ①

3 ① ○　② ×　③ ○　④ ○
⑤ ○　⑥ ×

4 ① 花のみつ　キャベツ畑
② 木のしる　林
③ 草の葉　草原
④ 小さい虫　草原
⑤ 木のしる　林

9月3日(金)　答え

国語

22頁　国語辞典の使い方②

(1)①大きい　②言う　③食べる　④しずか
⑤行く　⑥うれしい

(2)①ウ　②イ

(3)①ウ　②イ

95頁　消しゴムころりん①

一、(作文をとっくに書き上げて、)つくえの上で消しゴムを転がしてあそんでいた。

二、①パチンコ玉くらい
②パチンコ玉のように丸い。

三、まっすぐには転がらないこと。

四、消しゴムが、ゆかいたの細長い三角形のあなに落ちていったこと。

五、①略
②そのしゅんかんに

六、あだから　いすると

七、ゆきひろの口もとがわらっているように見えたから。

算数

時こくと時間 (5)

ねこくとねおきをもとめる　　月　日　名前

1. 午前9時40分に家を出て，1時間30分かかって動物園に着きました。動物園に着いた時こくは何時何分ですか。

答え　午前11時10分

2. 家は午後9時15分にねて，朝起きたのは午前6時30分です。ねていた時間は何時間何分ですか。

答え　9時間15分

3. 学校から家まで歩いて30分かかります。午後4時15分に家に着きました。学校を出たのは何時何分ですか。

答え　午後3時45分

4. 東京を午後3時20分に発車する新かん線に乗ると，京都に午後6時35分に着きます。東京から京都まで何時間何分かかりますか。

答え　3時間15分

5. 午前10時にプールに着くようにバスに乗ります。プールまではバスで45分かかります。何時何分までにバスに乗ればよいですか。

答え　午前9時15分

時こくと時間 (6)

時間のたんい（秒・分・時間）　　月　日　名前

1. □にあてはまる数を書きましょう。

① 60秒＝ 1 分　② 100秒＝ 1 分 40 秒
③ 169秒＝ 2 分 49 秒　④ 1分45秒＝ 105 秒
⑤ 3分＝ 180 秒　⑥ 2分36秒＝ 156 秒
⑦ 2時間＝ 120 分　⑧ 1時間25分＝ 85 分
⑨ 240分＝ 4 時間　⑩ 173分＝ 2 時間 53 分

2. どちらの時間が長いですか。長い方に○をつけましょう。

① (55秒　(1分))　② ((2分10秒)　120秒)
③ ((95秒)　1分34秒)　④ (3分　(186秒))

3. (　)にあてはまる時間のたんいを書きましょう。

① 昼ごはんを食べるのにかかる時間 …… 50 (分)
② 図書館にいた時間 …… 3 (時間)
③ 50メートルを走るのにかかる時間 …… 11 (秒)
④ ピアノの練習をした時間 …… 75 (分)
⑤ 色みがきにかかる時間 …… 300 (秒)

わり算 (9)

0÷2〜0÷5　　月　日　名前

① 15÷5＝3	② 16÷2＝8	③ 28÷4＝7
④ 45÷5＝9	⑤ 12÷3＝4	⑥ 12÷2＝6
⑦ 24÷3＝8	⑧ 10÷2＝5	⑨ 30÷5＝6
⑩ 8÷2＝4	⑪ 12÷4＝3	⑫ 18÷3＝6
⑬ 20÷4＝5	⑭ 9÷3＝3	⑮ 18÷2＝9
⑯ 28÷4＝7	⑰ 25÷5＝5	⑱ 15÷3＝5
⑲ 10÷5＝2	⑳ 32÷4＝8	㉑ 14÷2＝7
㉒ 12÷4＝3	㉓ 40÷5＝8	㉔ 16÷4＝4
㉕ 27÷3＝9	㉖ 35÷5＝7	㉗ 6÷2＝3
㉘ 36÷4＝9	㉙ 14÷2＝7	㉚ 12÷3＝4
㉛ 20÷5＝4	㉜ 6÷3＝2	㉝ 24÷4＝6
㉞ 12÷2＝6	㉟ 40÷5＝8	㊱ 15÷3＝5
㊲ 24÷4＝6	㊳ 4÷2＝2	㊴ 8÷4＝2
㊵ 21÷3＝7	㊶ 45÷5＝9	㊷ 27÷3＝9
㊸ 30÷5＝6	㊹ 14÷2＝7	㊺ 32÷4＝8
㊻ 21÷3＝7	㊼ 16÷4＝4	㊽ 18÷2＝9
㊾ 15÷5＝3	㊿ 18÷3＝6	

わり算 (10)

0÷6〜0÷9　　月　日　名前

① 42÷6＝7	② 24÷8＝3	③ 35÷7＝5
④ 54÷9＝6	⑤ 30÷6＝5	⑥ 64÷8＝8
⑦ 28÷7＝4	⑧ 18÷9＝2	⑨ 24÷6＝4
⑩ 63÷7＝9	⑪ 45÷9＝5	⑫ 40÷8＝5
⑬ 54÷6＝9	⑭ 56÷8＝7	⑮ 21÷7＝3
⑯ 72÷9＝8	⑰ 14÷7＝2	⑱ 36÷6＝6
⑲ 36÷9＝4	⑳ 48÷8＝6	㉑ 18÷6＝3
㉒ 72÷8＝9	㉓ 49÷7＝7	㉔ 54÷9＝6
㉕ 30÷6＝5	㉖ 32÷8＝4	㉗ 56÷7＝8
㉘ 81÷9＝9	㉙ 48÷6＝8	㉚ 16÷8＝2
㉛ 42÷7＝6	㉜ 63÷9＝7	㉝ 36÷6＝6
㉞ 48÷8＝6	㉟ 21÷7＝3	㊱ 45÷9＝5
㊲ 63÷9＝7	㊳ 48÷6＝8	㊴ 42÷7＝6
㊵ 36÷9＝4	㊶ 64÷8＝8	㊷ 12÷6＝2
㊸ 21÷7＝3	㊹ 40÷8＝5	㊺ 27÷9＝3
㊻ 54÷6＝9	㊼ 49÷7＝7	㊽ 24÷8＝3
㊾ 72÷9＝8	㊿ 24÷6＝4	

9月7日(火)　答え

国語

24頁　〈力だめし〉国語辞典の使い方

(1)①(4)てら (1)たま (5)とき (2)ちち (3)つり
②(5)かわ (4)かも (1)か (2)が (3)かめ
③(2)クラス (3)グラス (1)くらす
④(2)コーヒー (1)こうちゃ (3)コーラ
⑤(3)ひと (2)ヒット (1)ひつじ
⑥(1)ホール (3)ポール (2)ボール
(2)①びん ②りよう ③けいき ④カット
⑤ほうもん ⑥ぞうに
(3)①作る ②きれい ③早い ④歩く ⑤買う
⑥楽しい
(4)①㋒ ②㋑

96頁　消しゴムころりん②

一. ゆきひろが目を大きくしていたから。
二. ゆきひろが見ていないふりをして、一人でわらったから。
三. ①一ぴきのやもり
②思わず両足がうき上がり、声が出そうになった。
四. ①㋒ ②㋐ ③㋑
五. 白い消しゴムを片手でかかえ、もう片方の手の人さし指でさおりを指さし、次にかかえた消しゴムを指さした。
六. あけれど いすると
七. 略

算数

わり算 (19)

文章題① 名前　月　日

1. いちごが63こあります。1ふくろに7こずつ入れると、何ふくろできますか。
式 63÷7=9
答え 9ふくろ

2. チョコレートが30こあります。6人に同じ数ずつ分けると、1人分は何こになりますか。
式 30÷6=5
答え 5こ

3. りんごが16こ、みかんが4こあります。りんごの数は、みかんの数の何倍ですか。
式 16÷4=4
答え 4倍

4. テープが72cmあります。同じ長さずつ9本に切ると、1本の長さは何cmになりますか。
式 72÷9=8
答え 8cm

5. たまごが18こあります。1日に3こずつ使うと、何日間使えますか。
式 18÷3=6
答え 6日間

19

わり算 (20)

文章題① 名前　月　日

1. 子どもが35人います。同じ人数になるように5チームに分かれました。1チームは何人ですか。
式 35÷5=7
答え 7人

2. 18dLのジュースを、2dLずつコップに入れました。ジュースは、コップ何こ分ありましたか。
式 18÷2=9
答え 9こ分

3. 1まい7円のおり紙を買います。42円では、おり紙を何まい買えますか。
式 42÷7=6
答え 6まい

4. どんぐりが72こあります。8こずつふくろに入れます。ふくろは何まいいりますか。
式 72÷8=9
答え 9まい

5. 赤いリボンが6cm、青いリボンが12cmあります。青いリボンの長さは、赤いリボンの長さの何倍ですか。
式 12÷6=2
答え 2倍

わり算 (21)

文章題② 名前　月　日

1. おにぎりが10こあります。1人に2こずつ分けると、何人に分けられますか。
式 10÷2=5
答え 5人

2. 7日間で、おりづるを49こおります。毎日同じ数ずつおるとすると、1日に何こおればよいですか。
式 49÷7=7
答え 7こ

3. 5Lのお茶を、1Lずつ水とうに分けるには、水とうは何こいりますか。
式 5÷1=5
答え 5こ

4. ケーキが12こあります。3まいのお皿に同じ数ずつ分けます。1皿分は何こになりますか。
式 12÷3=4
答え 4こ

5. 畑でトマトが54こ、なすが9ことれました。トマトの数は、なすの数の何倍ですか。
式 54÷9=6
答え 6倍

20

わり算 (22)

文章題② 名前　月　日

1. キャラメルが40こあります。1ふくろに8こずつ分けると、ふくろは2まいあまりました。ふくろは、全部で何まいありますか。
式 40÷8=5
5+2=7
答え 7まい

2. パン屋さんがクロワッサンを27こ作って、ふくろに3こずつ入れました。そのうち5ふくろが売れました。あと何ふくろのこっていますか。
式 27÷3=9
9−5=4
答え 4ふくろ

3. えん筆が48本あります。子ども1人に6本ずつ分けると、4人分たりませんでした。子どもは、全部で何人いますか。
式 48÷6=8
8+4=12
答え 12人

4. みさとさんは、シールを27まい持っています。1ふくろに9まいずつ分けて、そのうち1ふくろを妹にあげました。あと何ふくろのこっていますか。
式 27÷9=3
3−1=2
答え 2ふくろ

5. お皿が9まいあります。42このたこやきを、1つのお皿に7こずつ分けました。たこやきがのっていないお皿は、何まいですか。
式 42÷7=6
9−6=3
答え 3まい

9月8日(水)　答え

国語

40頁　ローマ字①

(1)① saru
② tora
③ isu
④ tukue(tsukue)
⑤ ari
⑥ usagi
⑦ panda
⑧ tonbo
⑨ siitake(shiitake)
⑩ ninzin(ninjin)

(2)①ふね　②やま
③りんご　④こぶた
⑤わなげ　⑥いえ
⑦ひざ　⑧えほん
⑨でんき　⑩えんぴつ

144頁　めだか①

一. ①㋐春
④小川や池の水面の近く
②三、四センチメートル
③みんなでおゆうぎしているよ
二. ①たがめ・げんごろう・やご・みずかまきり
②大きな魚・ざりがに
三. ①水面近く　②てき　③すばやく
④そこ　⑤水をにごらせる
⑥集まって

算数

たし算とひき算の筆算 (10)　月　日　名前
いろいろな筆

① 543 − 234	② 320 − 133	③ 568 − 475	④ 1000 − 451
309	187	93	549
⑤ 829 − 336	⑥ 500 − 287	⑦ 768 − 324	⑧ 607 − 313
493	213	444	294
⑨ 842 − 799	⑩ 546 − 539	⑪ 811 − 22	⑫ 702 − 593
43	7	789	109
⑬ 1000 − 9	⑭ 459 − 27	⑮ 310 − 44	⑯ 788 − 93
991	432	266	695
⑰ 572 − 283	⑱ 204 − 37	⑲ 782 − 53	⑳ 500 − 88
289	167	729	412

ふりかえりシート②　月　日　名前
ひき算の筆算

① 786 − 499	② 964 − 513	③ 504 − 228	④ 1000 − 46
287	451	276	954
⑤ 647 − 255	⑥ 300 − 3	⑦ 724 − 205	⑧ 519 − 26
392	297	519	493
⑨ 916 − 67	⑩ 602 − 505	⑪ 1000 − 592	⑫ 852 − 844
849	97	408	8
⑬ 605 − 79	⑭ 700 − 399	⑮ 612 − 555	
526	301	57	

チャレンジ
1 2 3 の3まいのカードをならびかえて、いちばん大きいはと いちばん小さいはをそえます。
① いちばん大きいはからいちばん小さいはをひきます。198
② ①のはえの3つのはをならびかえて、いちばん大きいはからいちばん小さいはをひきます。792
③ ②を何回かくり返すと同じはえのくり返しになります。その3けたのはは何ですか。495

たし算とひき算の筆算 (11)　月　日　名前
4けたのたし算

① 5718 + 3161	② 6421 + 2579	③ 4875 + 128	④ 5697 + 55
8879	9000	5003	5752
⑤ 4649 + 4749	⑥ 5998 + 49	⑦ 2098 + 6908	⑧ 7754 + 62
9398	6047	9006	7816
⑨ 5878 + 2878	⑩ 6257 + 2748	⑪ 97 + 3868	⑫ 7676 + 295
8756	9005	3965	7971
⑬ 84 + 6596	⑭ 6809 + 799	⑮ 3698 + 5402	⑯ 305 + 3197
6680	7608	9100	3502
⑰ 5237 + 2354	⑱ 568 + 1438	⑲ 2678 + 7253	⑳ 6176 + 2826
7591	2006	9931	9002

たし算とひき算の筆算 (12)　月　日　名前
4けたのひき算

① 8675 − 2341	② 7456 − 58	③ 4034 − 955	④ 9435 − 4648
6334	7398	3079	4787
⑤ 7524 − 247	⑥ 6756 − 3238	⑦ 5472 − 54	⑧ 6079 − 5987
7277	3518	5418	92
⑨ 7040 − 2866	⑩ 1003 − 946	⑪ 9036 − 59	⑫ 8008 − 4154
4174	57	8977	3854
⑬ 1005 − 687	⑭ 6021 − 1944	⑮ 7349 − 4876	⑯ 9100 − 507
318	4077	2473	8593
⑰ 8425 − 7536	⑱ 6007 − 518	⑲ 6543 − 76	⑳ 4247 − 1009
889	5489	6467	3238

理科

チョウ(1) P20
チョウ(2) P21

P20

1 (1) ②
(2) ②
(3) ②
(4) 黄色
(5) ②
(6) よう虫
(7) 黄色
(8) ①

2 (1) ① たまご　② 水
③ 葉っぱ　④ あな
(2) ① ふん　② そうじ
③ 大きく　④ 葉っぱ
⑤ 日光　⑥ 手

P21

1 ① たまごのから　② キャベツ
③ みどり色　④ 皮
⑤ 4回　⑥ さなぎ

2 (1) ① よう虫　② たまご
③ せい虫　④ さなぎ
(2) ②、④

3 (1) ① あたま　② むね
③ はら
(2) ①
(3) ②の部分で4まい
(4) ②の部分で6本

9月9日(木)　答え

国語

60頁　漢字の音と訓①

(1)① シ　いち　② カイ　あ（う）
③ トウ　ズ　あたま
④ ワ　はな（す）　はなし
⑤ カン　ケン　あいだ　ま
⑥ カ　ケ　いえ　や

(2)① ほし　セイ　② カ　うた　うた
③ コウ　たか　④ ガッ　たの　⑤ うみ　カイ

145頁　めだか②

一. ① 死んで
② 小さい・わずかに・水たまり
③ 四十度近く

二. でも

三. 小川や池・大きな川・海

四. みちしおに乗ってもどる。

五. 真水に海水がまざっている。

六. ㋐、㋒、㋓

算数

あまりのあるわり算 (7)　名前　月　日
0+2〜0+5㊐

① 19÷5=3 あまり4　② 7÷3=2 あまり1　③ 33÷4=8 あまり1
④ 7÷2=3 あまり1　⑤ 17÷5=3 あまり2　⑥ 20÷3=6 あまり2
⑦ 27÷4=6 あまり3　⑧ 19÷2=9 あまり1　⑨ 8÷5=1 あまり3
⑩ 5÷3=1 あまり2　⑪ 13÷4=3 あまり1　⑫ 15÷2=7 あまり1
⑬ 46÷5=9 あまり1　⑭ 11÷3=3 あまり2　⑮ 39÷4=9 あまり3
⑯ 5÷2=2 あまり1　⑰ 22÷5=4 あまり2　⑱ 14÷3=4 あまり2
⑲ 18÷4=4 あまり2　⑳ 17÷2=8 あまり1　㉑ 41÷5=8 あまり1
㉒ 28÷3=9 あまり1　㉓ 10÷4=2 あまり2　㉔ 8÷3=2 あまり2
㉕ 11÷2=5 あまり1　㉖ 23÷3=7 あまり2　㉗ 3÷2=1 あまり1
㉘ 13÷5=2 あまり3　㉙ 5÷4=1 あまり1　㉚ 26÷3=8 あまり2
㉛ 25÷4=6 あまり1　㉜ 13÷2=6 あまり1　㉝ 31÷5=6 あまり1
㉞ 16÷3=5 あまり1　㉟ 39÷5=7 あまり4　㊱ 7÷2=3 あまり1
㊲ 33÷5=6 あまり3　㊳ 9÷2=4 あまり1　㊴ 31÷4=7 あまり3
㊵ 19÷2=9 あまり1　㊶ 26÷5=5 あまり1　㊷ 19÷3=6 あまり1
㊸ 22÷4=5 あまり2　㊹ 15÷2=7 あまり1　㊺ 47÷5=9 あまり2

あまりのあるわり算 (8)　名前　月　日
0+6〜0+9㊐

① 19÷8=2 あまり3　② 10÷6=1 あまり4　③ 48÷9=5 あまり3
④ 52÷7=7 あまり3　⑤ 73÷8=9 あまり1　⑥ 32÷6=5 あまり2
⑦ 58÷9=6 あまり4　⑧ 40÷7=5 あまり5　⑨ 44÷8=5 あまり4
⑩ 22÷6=3 あまり4　⑪ 34÷9=3 あまり7　⑫ 58÷7=8 あまり2
⑬ 39÷8=4 あまり7　⑭ 27÷6=4 あまり3　⑮ 83÷9=9 あまり2
⑯ 19÷7=2 あまり5　⑰ 70÷8=8 あまり6　⑱ 47÷6=7 あまり5
⑲ 68÷9=7 あまり5　⑳ 47÷7=6 あまり5　㉑ 11÷8=1 あまり3
㉒ 58÷6=9 あまり4　㉓ 22÷9=2 あまり4　㉔ 25÷7=3 あまり4
㉕ 61÷8=7 あまり5　㉖ 40÷6=6 あまり4　㉗ 78÷9=8 あまり6
㉘ 43÷7=6 あまり1　㉙ 28÷8=3 あまり4　㉚ 49÷6=8 あまり1
㉛ 40÷9=4 あまり4　㉜ 11÷7=1 あまり4　㉝ 50÷8=6 あまり2
㉞ 44÷6=7 あまり2　㉟ 13÷9=1 あまり4　㊱ 61÷7=8 あまり5
㊲ 21÷8=2 あまり5　㊳ 16÷6=2 あまり4　㊴ 52÷9=5 あまり7
㊵ 68÷7=9 あまり5　㊶ 77÷8=9 あまり5　㊷ 35÷6=5 あまり5
㊸ 60÷9=6 あまり6　㊹ 31÷7=4 あまり3　㊺ 47÷8=5 あまり7

あまりのあるわり算 (17)　名前　月　日
文章題①

[1] おまんじゅうが62こあります。1箱に9こずつ入れます。
全部のおまんじゅうを入れるには、箱が何こいりますか。
式 62÷9=6あまり8
6+1=7
答え 7こ

[2] 子どもが22人います。1つの長いすに4人ずつすわります。
みんながすわるには、長いすは何こいりますか。
式 22÷4=5あまり2
5+1=6
答え 6こ

[3] にんじんが16本あります。1ふくろに3本ずつ入れます。
全部のにんじんを入れるには、ふくろが何まいいりますか。
式 16÷3=5あまり1
5+1=6
答え 6まい

[4] 計算問題が75問あります。1日に8問ずつといていきます。
全部とき終わるまでに何日かかりますか。
式 75÷8=9あまり3
9+1=10
答え 10日

[5] 牛にゅうが1L5dLあります。1日に2dLずつ飲みます。
全部飲み終わるのに何日かかりますか
式 15÷2=7あまり1
7+1=8
答え 8日

あまりのあるわり算 (18)　名前　月　日
文章題①

[1] キャラメルが27こあります。1ふくろに6こずつ入れます。
6こ入りのふくろが何ふくろできますか。
式 26÷6=4あまり3
答え 4ふくろ

[2] おり紙が39まいあります。1人に5まいずつ分けます。
何人に分けられますか。
式 39÷5=7あまり4
答え 7人

[3] いちごが64こあります。1つのケーキにいちごを7こ使います。
いちご64こでは、ケーキを何こ作ることができますか。
式 64÷7=9あまり1
答え 9こ

[4] えん筆が71本あります。9本で1つのたばにします。
9本のえん筆のたばは何たばできますか。
式 71÷9=7あまり8
答え 7たば

[5] はばが35cmのたながあります。このたなに、あつさ4cmの本を入れていきます。あつさ4cmの本は、何さつ入りますか。
式 35÷4=8あまり3
答え 8さつ

9月10日（金）　答え

国語

62頁　漢字の音と訓②

(1) ①音そうげん　訓くさはら
②音ふうしゃ　訓かざぐるま
③音がっぴ　訓つきひ
④音しじょう　訓いちば
⑤音しゅんかしゅうとう　はるなつあきふゆ

(2) ①こう・うし・のち
②こう・まじ
③う・せい・じょう・は
④こう・ぎょう・い・おこな

(3) ①きょうふう→強い風（つよいかぜ）
②がいしゅつ→外に出る（そとにでる）
③ばりき→馬の力（うまのちから）
④そうちょう→早い朝（はやいあさ）

115頁　のらねこ①

一. ①真っ黒い
②リョウの仲間のねこよりも大きい。
③つやっやしている。
④リョウのうちの庭のまん中
⑤ごろんと横になったまま動かない。

二. リョウがねこの顔のある方へ行こうとしたとき

三. あのらねこ　いリョウ
うのらねこ　えリョウ　おリョウ

四.
わあ、とても速い。
きれいなねこだなあ。
でも、少しこわい。

五. ①のらねこ
②これ以上そばへよると、とびかかってきそうな様子。

六. かわいたがりたかった。

七. ①よい時がくるのをじっとねらう。
②気をゆるして、注意しないでいる。

算数

表とグラフ（1）

表にするしかた　名前　月　日

1 クラスですきな動物を調べました。

① 「正」の字を使って、動物ごとに人数を⑦の表に整理しましょう。
② ⑦の表の「正」の字を数字になおし、⑦の表に人数と合計を書きましょう。

⑦ すきな動物調べ

うさぎ	正下
ひつじ	下
ぶた	一
リス	正下
きつね	一
くま	正

⑦ すきな動物調べ

しゅるい	人数（人）
うさぎ	8
ひつじ	3
リス	7
くま	5
その他	2
合計	25

2 クラスですきなスポーツを調べました。
⑦の表の「正」の字を数字になおし、⑦の表に人数と合計を書きましょう。

⑦ すきなスポーツ調べ

サッカー	正一
テニス	下
野球	正
バドミントン	一
バスケットボール	正下
水泳	一
バレーボール	下

⑦ すきなスポーツ調べ

しゅるい	人数（人）
サッカー	6
テニス	4
野球	5
バスケットボール	8
バレーボール	3
その他	2
合計	28

69

表とグラフ（2）

ぼうグラフのよみとり　名前　月　日

1 下のぼうグラフは、3年1組ですきなくだものを調べたものです。

① グラフの1めもりは、何人を表していますか。（1人）
② みかんの人数は、メロンの人数より何人多いですか。（5人）
③ 3年1組は、全部で何人いますか。（28人）

2 下のぼうグラフは、先週図書室で本をかりた3年生の人数を調べたものです。

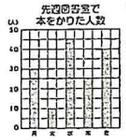

① グラフの1めもりは、何人を表していますか。（5人）
② 本をかりた人数がいちばん多いのは、何曜日ですか。（水曜日）
③ 金曜日の人数は、火曜日の人数の何倍ですか。（4倍）

3 下のぼうグラフで、たてじくの1めもりが表している大きさを□に書きましょう。また、ぼうが表している大きさを（　）に書きましょう。

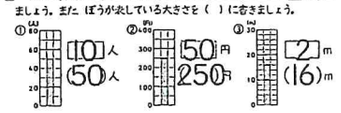

70

表とグラフ（3）

ぼうグラフに表す①　名前　月　日

＊グラフに表すときは、大きいじゅんにかきましょう。

1 下の表は、3年1組ですきなきゅう食を調べたものです。表をぼうグラフに表しましょう。

すきなきゅう食調べ

しゅるい	人数（人）
カレーライス	4
シチュー	9
ハンバーグ	7
やきそば	5
その他	3

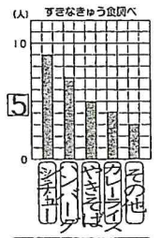

2 下の表は、家の前を、30分間に通った乗り物の数を調べたものです。表をぼうグラフに表しましょう。

乗り物調べ

しゅるい	台数（台）
自動車	18
トラック	8
バス	4
オートバイ	14
タクシー	10
その他	6



表とグラフ（4）

ぼうグラフに表す②　名前　月　日

＊グラフに表すときは、大きいじゅんにかきましょう。

1 下の表は、ひろきさんの家からの道のりを調べたものです。表をぼうグラフに表しましょう。

家からの道のり調べ

場所	道のり（m）
スーパー	600
学校	800
駅	400
公園	500
図書館	1000

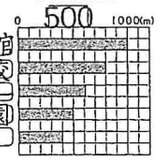

2 下の表は、6人のわ投げの点数をまとめたものです。表をぼうグラフに表しましょう。

わ投げの点数

名前	点数（点）
ゆうた	60
たくや	40
あすか	80
かずき	100
まゆみ	30
ふみか	70

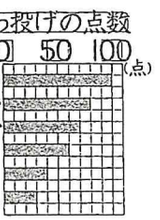

点

名前

下の地図記号にあてはまる建物や施設、植生などを、語句から選んで書きましょう。

植物の集団のこと

おもな地図記号

◎	区役所		高校	II	田
○	役場		小・中学校	∨	畑
	税務署		病院	∴	茶畑
Y	消防署		博物館		果樹園
	保健所		図書館		工場
	警察署		神社		発電所
X	交番		寺院		温泉
	郵便局		老人ホーム		城あと

(語句)

郵便局　田（水田）　市役所　図書館　交番　工場

畑　小・中学校　病院　博物館　城あと　高等学校

果樹園　寺院　警察署　税務署　発電所・変電所　温泉

神社　茶畑　保健所　町・村役場　消防署　老人ホーム

このプリントはウェブサイトで無料ダウンロードできます。　© ちびむすドリル　http://happylilac.net/syogaku.htm

ローマ字練習プリント　その3

年　組　名前(　　)

のばす音（お母さん）　お母さん　お父さん

(okâsan)(okâsan)(otôsan)

つまる音　ねっこ　ねっこ　きって

(nekko)(nekko)(kitte)(kitte)

地名・人名　足立区

足立区(Adachi-ku)(Adachi-ku)

(菅　義偉)　よしひで　すが

(Yoshihide Suga)(Yoshihide Suga)

本屋　→ほにゃにならないよう「'」をつける。

(hon'ya)(hon'ya)　ほんや

様々な言葉を練習しましょう!!

(ie)(kasa)(taiko)(tanuki)

いえ　かさ　たいこ　たぬき

(hosi)(musi)(hiyoko)(iruka)

ほし　むし　ひよこ　いるか

わに　きりん　メガネ

すずめ　めだか　とんぼ

(suzume)(medaka)(tonbo)

パンダ　えんぴつ　つくえ

(panda)(enpitsu)(tsukue)

キャベツ　りょかん　きんぎょ

(kyabetsu)(ryokan)(kingyo)

お姉さん（伸ばす音）　ねっこ　きって

(onêsan)(nekko)(kitte)

学校（つまる音＋伸ばす音）　新垣　結衣

(gakkô)(Yui Aragaki)

あらがき　ゆい

ヘボン式練習　→ふつうローマ字はヘボン式で表すことが多いです。よく覚えて下さい。

(shimeji)(Fuji)(Chiba)(tsume)

しめじ　富士　ふじ　千葉　ちば　つめ

「ヘ」伸ばす記号を使わずに表すときも多いです。

東京　大阪　千住緑町

(Tokyo)(Osaka)(Senjumidorichô)

星野　源　大谷　翔平

ほしの　げん　おおたに　しょうへい

国語 漢字のまとめ ①

全国ちょう査 漢字

ことばに親しもう ～ 漢字の広場 ②

漢字を書きましょう。
（――は、漢字とひらがなで書きましょう。）

P 7 ～ 80

名前　　組　　番

◎漢字の全国調査における「難き」の正答率を各設問で示しています。学習した漢字の中から、正答率の低い漢字を選んで出題しています。

・学習した漢字を正しく書くことができる。

各答2点

/100

ぶんぴつ

8・⑪上　8・⑨上
8・⑫前

レベル1

① 駅（87.5%）前の店。
② 予（87.7%）想する。
③ 今度（89.5%）の休み。
④ 気温（87.0%）が高い。
⑤ 車の運（84.9%）てん。
⑥ 有（88.3%）名な山。
⑦ うめの実（82.8%）。
⑧ 次（82.3%）の人。
⑨ 真理の究（82.1%）明。
⑩ 言葉の意味（81.3%）。

レベル2

⑪ 話題（79.2%）の本。
⑫ 暗号（79.2%）をとく。
⑬ 食事（77.0%）をとる。
⑭ 動（77.0%）物をかう。
⑮ 昭（76.7%）和の時代。
⑯ 文の主（76.7%）語。
⑰ 黒い自転（76.4%）車。
⑱ 筆者（76.1%）の考え。
⑲ 炭（73.9%）火でやく。
⑳ 始発（73.0%）の電車。

レベル3

㉑ 魚が死（73.0%）ぬ。
㉒ 氷（72.9%）を作る。
㉓ 船に乗（71.3%）る。
㉔ 安全第（69.2%）一
㉕ 橋（69.2%）をかける。
㉖ 感（68.3%）想を話す。
㉗ 百点を取（64.8%）る。
㉘ 箱の中身（63.5%）。
㉙ 校庭（61.7%）に出る。
㉚ 研（61.5%）きゅう室

レベル4

㉛ 上等（61.2%）なくつ。
㉜ 岸（60.6%）に着く。
㉝ 面談（57.4%）をする。
㉞ 外国の文化（54.9%）。
㉟ バナナの皮（53.8%）。
㊱ 文章（52.5%）を書く。
㊲ 手相（47.6%）を見る。
㊳ うん命（32.8%）の日。
㊴ 旅（30.0%）行に行く。
㊵ 様（11.7%）子を見る。

レベル5

㊶ 図書館でしらべる。（調べる）（88.6%）
㊷ えだがまがる。（曲がる）（83.8%）
㊸ 絵本をひらく。（開く）（82.5%）
㊹ グラフにあらわす。（表す）（80.6%）
㊺ 切手をあつめる。（集める）（78.7%）
㊻ 友達とあそぶ。（遊ぶ）（78.7%）
㊼ 紙をかさねる。（重ねる）（75.4%）
㊽ 高い木にのぼる。（登る）（74.2%）
㊾ たいらな場所。（平ら）（69.7%）
㊿ プールでおよぐ。（泳ぐ）（67.5%）

見直したら、○をつけましょう。（　）

実施

学習指導要領のポイント

「話すこと・聞くこと」、「書くこと」、「読むこと」の3領域と〔伝統的な言語文化と国語の特質に関する事項〕で構成されて

を、〔知識及び技能〕及び〔思考力、判断力、表現力等〕に構成し直した。

さし絵　株式会社コットンズ

算数 夏休み宿題　3年　組（　　答　え　　）

1 計算をしましょう。

①2378+5157=7535

②6207−3849=2358

2 計算をしましょう。（あまりが出る場合には、あまりもだしましょう。）

①9÷9=1

②48÷4=12

③56÷6=9あまり2

④21÷4=5あまり1

3 □に当てはまる数を書きましょう。

①3×7=3×6+ 3

②6×8=(6× 4)+(6×4)

4 くふうして計算しましょう。

①3×4×5=3×(4×5)=60

②5×2×3=(5×2)×3=30

5 □に当てはまる数を書きましょう。

①2650m= 2 km 650 m

②700m+350m= 1 km 50 m

6 時間や時こくをもとめましょう。

①午後3時40分から、50分後の時こくと50分前の時こくをもとめましょう。

50分後：午後4時30分

50分前：午後2時50分

②午前8時20分から、午前9時10分までの時間をもとめましょう。

50分間

7 公園に子どもが12人います。とちゅうに何人かの子どもが遊びにきたので、公園の子どもは35人になりました。

①この場面を図に表しましょう。

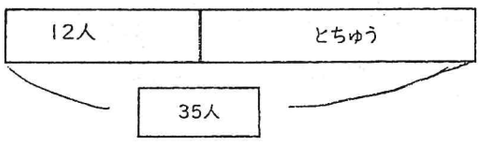

②とちゅうに遊びにきた子どもの数を□として式に表しましょう。

式　12+□=35

③とちゅうに遊びにきた子どもは何人でしょう。

23人

8 すきなくだものを調べました。表やグラフにまとめましょう。

リンゴ	リンゴ	ミカン	イチゴ	リンゴ	イチゴ
リンゴ	ミカン	メロン	リンゴ	リンゴ	イチゴ
イチゴ	リンゴ	メロン	モモ	イチゴ	リンゴ
モモ	メロン	ミカン	ミカン	イチゴ	ミカン

①表にせいりしましょう。

すきなくだもの調べ

しゅるい	リンゴ	イチゴ	ミカン	その他	合計
数（人）	8	6	5	5	24
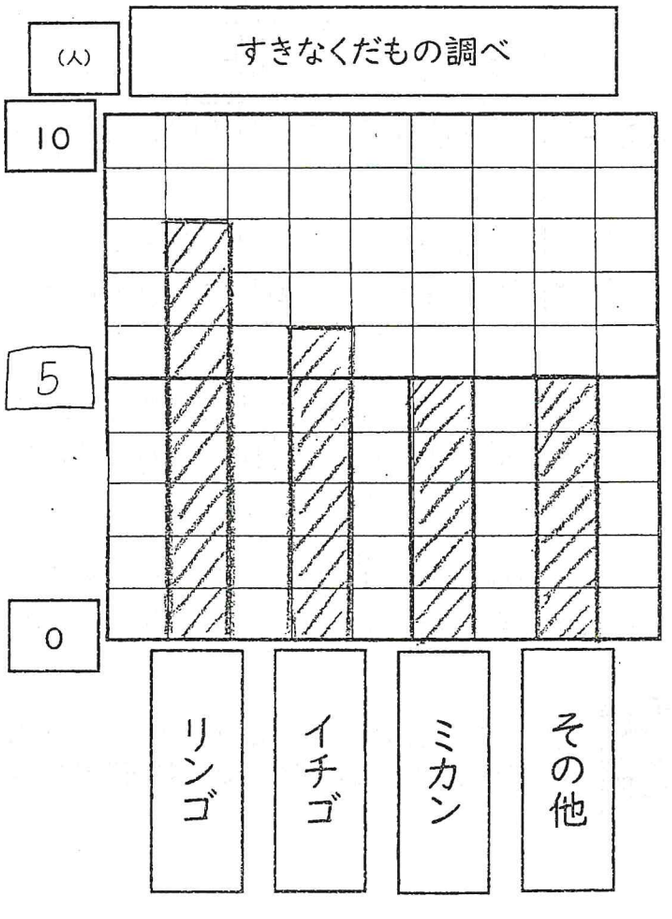
②表を下のグラフに表しましょう。